تم تحميل وعرض المادة من

موقع كتبي



www.kottby.net

موقع كتبي يعرض لكم الكتب الدراسية الطبعة الجديدة
وحلولها، وشرح للمناهج الدراسية، توزيع المناهج، تحاضير،
أوراق عمل، نماذج إختبارات عرض مباشر وتحميل PDF

حمل التطبيق من هنا





الوحدة

العلم وتفاعلات الأجسام



ما العلاقة بين مواعيد القطار ومضخات الزيت؟

وزارة التعليم
Ministry of Education
2021 - 1443

p12-39.indd 12 03/04/2019 8:07 PM



في بداية القرن التاسع عشر، كانت القطارات مضطرة إلى التوقف بشكل متكرر، من أجل تشحيم عجلاتها وأجزائها المتحركة الأخرى. فبدون هذه العملية، تتعرض هذه الأجزاء للتلف، بتأثير قوة الاحتكاك. فكان القطار يتوقف كل بضعة أميال، وينزل عمال الصيانة ليقوموا بعملية التشحيم بشكل يدوي، وكانت هذه الطريقة تستهلك وقتًا كبيرًا، وتجعل من الصعب جدًا تسيير القطارات وفق جدول زمني دقيق.

وحوالي عام ١٨٧٠م، طوّر المهندس إليجا ماكّوي، أول نظام للتشحيم الآلي، يمكنه تشحيم الأجزاء المتحركة أثناء سير القطار، دون الحاجة إلى توقفه. ومنذ ذلك الحين، تم تطوير العديد من أجهزة التشحيم الآلي. اليوم توجد في كل سيارة مضخة تمرر الزيت في دورة، ضمن المحرك، لتشحيم الأجزاء المتحركة.

مشاريع الوحدة

ارجع إلى أي موقع إلكتروني للبحث عن فكرة أو موضوع يصلح لمشروع تنفذه بنفسك.

ومن المشروعات المقترحة ما يلي:

- **التاريخ** أكتب بحثا عن تاريخ علماء لهم إسهامات في الميكانيكا.
- **التقنية** بناء نماذج مصغرة لأجهزة بها آلات بسيطة وشرح طريقة عملها.
- **النماذج** صمم مدينة ألعاب وحدد الألعاب التي سوف تحتويها وأنواع الآلات البسيطة التي تستخدم في كل منها.

البحث عبر الشبكة الإلكترونية

تقييم مصداقية الإعلانات: ساعد زملاءك الطلاب في تعرف التقنيات المستخدمة في الإعلانات، وكيفية تقييم مدى مصداقيتها في التعبير عن غايتها.

p12-39.indd 13 08/04/2019 11:02 AM

الفصل ١

طبيعة العلم

الفكرة العامة

العلم طريقة منظمة لمعرفة العالم الطبيعي

الدرس الأول

العلم وعملياته

الفكرة الرئيسة يصف العلم الظواهر التي تحدث في العالم الطبيعي، ويقترح تفسيرًا لها، ويوظف الطرائق العلمية التي تتضمن الملاحظة ووضع الفرضيات وإجراء التجارب، وتحليل النتائج، والاستنتاج.

الدرس الثاني

النماذج العلمية

الفكرة الرئيسة النموذج العلمي هو تمثيل للأشياء أو الأحداث يساعد العلماء على فهم العالم من حولنا.

الدرس الثالث

تقويم التفسيرات العلمية

الفكرة الرئيسة تعتمد صحة التفسير العلمي على دقة الملاحظة ومصداقية الاستنتاج.

دور العلم في حياتنا اليومية

أثناء دراستهم النظام البيئي في صحراء شبه الجزيرة العربية، تساءل العلماء كيف يمكن أن تنبت أزهار بهذه الروعة في مثل هذه البيئة الجافة.. بدأ العلماء بطرح الأسئلة.. ثم شرعوا في عمل استقصاءاتهم.

دفتر العلوم اذكر ثلاثة أمثلة توضح دور العلم في حياتنا اليومية.

في علاج الامراض المستعصية وزراعة الأعضاء، صناعة الأدوية، وسائل المواصلات الحديثة ، الصناعات الحديثة للمواد المختلفة.

p12-39.indd 14 03/04/2019 8:07 PM

نشاطات تمهيدية

تجربة استهلالية

لاحظ كيف تسرّع الجاذبية الأجسام

الجاذبية قوة طبيعية تبقي الأجسام على سطح الأرض، ولكن كيف تعمل؟ اهتم العلماء بدراسة موضوع الجاذبية والمفاهيم المرتبطة معها من خلال طرح أسئلة، وتسجيل الملاحظات. قم بتنفيذ التجربة التالية، لمعرفة تأثير الجاذبية في الأجسام.

١. خذ ثلاثة أقلام متماثلة غير مبريَّة.

٢. اربط قلمين منها معًا.

٣. ارفع الأقلام كلها إلى أعلى، ثم اتركها تسقط معًا من الارتفاع نفسه، ولاحظ ما يحدث.

٤. التفكير الناقد أيهما أسرع سقوطًا: القلم المنفرد أم القلمان المربوطان معًا؟ اكتب في دفتر العلوم، أيهما أسرع سقوطًا: القلم المنفرد أم ثلاثون قلمًا مربوطة معًا؟

القلمان المربوطان معًا يسقطا أسرع بسبب زيادة الكتلة عن القلم المنفرد . الثلاثون قلمًا مربوطة معًا أسرع .

المطويات

منظمات الأفكار

اعمل مطوية تساعدك على تحديد ما تعرفه عن العلوم، وما تريد أن تعرفه.

الخطوة ١ اطو ورقة في وضع رأسي من طرفها إلى طرفها الآخر، واجعل الجزء الأمامي أقصر من الخلفي.



الخطوة ٢ اقلب الورقة بشكل طولي، ثم اطوها ثلاثة أجزاء.

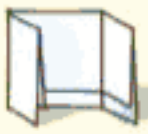

الخطوة ٣ اقطع الطبقة العليا فقط على طول الطيَّات لعمل ثلاثة أجزاء، واكتب عنوانًا لكل جزء.

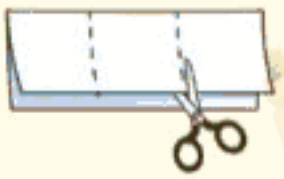

حدد الأسئلة قبل قراءتك الفصل، اكتب في الجزء الأول من المطوية ما تعرفه عن العلوم، وفي الجزء الثاني ما ترغب في معرفته، وبعد قراءة الفصل اكتب في الجزء الثالث ما تعلمته.

p12-39.indd 15 03/04/2019 8:07 PM

أتهيأ للقراءة

نظرة عامة

١ **أتعلّم** لكي يسهل عليك استيعاب الأفكار والعلاقات التي ترد في النص، اتبع الخطوات التالية عند البدء في قراءته:

١. انظر إلى العنوان والرسوم التوضيحية الواردة.
٢. اقرأ العناوين الرئيسة والفرعية والكلمات المكتوبة بالخط الداكن.
٣. ألق نظرة سريعة على النص لتعرف كيفية تنظيمه، وتقسيمه إلى أجزاء.
٤. انظر إلى الصور والرسوم والأشكال والخرائط، واقرأ العناوين والتفاصيل المرافقة لها.
٥. حدّد هدفًا للقراءة، هل تقرأ لتتعلم شيئًا جديدًا؟ أم تقرأ للبحث عن معلومات محددة؟

٢ **أتدرب** بعد قراءة سريعة للفصل، تصفح مع زميلك العناوين الرئيسة والفرعية جميعها، وأجب عن الأسئلة التالية:

- أي أجزاء الفصل كان أكثر إمتاعًا لك؟
- هل هناك أي كلمة في العناوين غير مألوفة لديك؟
- اختر أحد أسئلة المراجعة، وناقشه مع زميلك.

٣ **أطبّق** بعد تصفحك الفصل، اكتب فقرة قصيرة تصف فيها شيئًا تودّ تعلمه.

وزارة التعليم
Ministry of Education
2021 - 1443

p12-39.indd 16 03/04/2019 8:07 PM

إرشـــاد

عند إلقائك نظرة عامة على الفصل تأكد من اطلاعك على كافة الرسومات والجداول والتعليقات المرافقة لها.

توجيه القراءة وتركيزها

ركز على الأفكار الرئيسة عند قراءتك الفصل باتباعك ما يلي:

١ قبل قراءة الفصل أجب عن العبارات في ورقة العمل أدناه:

- اكتب (م) إذا كنت موافقًا على العبارة.
- اكتب (غ) إذا كنت غير موافق على العبارة.

٢ بعد قراءة الفصل ارجع إلى هذه الصفحة لترى إن كنت قد غيّرت رأيك حول أي من هذه العبارات.

- إذا غيرت إحدى الإجابات فبيّن السبب.
- صحّح العبارات غير الصحيحة.
- استرشد بالعبارات الصحيحة أثناء دراستك.

قبل القراءة م أو غ	العبارة	بعد القراءة م أو غ
	١. توضع النظريات العلمية قبل القيام بأي استقصاءات علمية.	
	٢. يمكن أن تؤول النظريات العلمية إلى قوانين علمية في نهاية الأمر.	
	٣. إذا لم تدعم الاستقصاءاتُ الفرضيةَ العلمية فالاستقصاءات هدر للوقت.	
	٤. لا يمكن أن يعرف العلماء يقينًا صحة تفسيرٍ ما حتى بعد القيام بالعديد من الاستقصاءات العلمية.	
	٥. من المفيد تغيير أكثر من متغير خلال التجربة الواحدة.	
	٦. تكون النماذج العلمية دقيقة بقدر دقة المعلومات المستخدمة لبنائها.	
	٧. تكون البيانات العلمية موثوقة إذا تمت ملاحظتها مرة واحدة على الأقل.	
	٨. تزداد مصداقية الاستنتاجات العلمية عندما تُستبعد الاستنتاجات الأخرى (يثبت أن الاستنتاجات الأخرى غير ممكنة).	

وزارة التعليم
Ministry of Education
2021 - 1443

p12-39.indd 17 03/04/2019 8:07 PM

الدرس ١

رابط الدرس الرقمي
www.ien.edu.sa

العلم وعملياته

في هذا الدرس

الأهداف

- تعرّف العلوم، وتحدد بعض الأسئلة التي لا تجيب عنها.
- تقارن بين النظريات والقوانين.
- تتعرف الفروع الثلاثة للعلوم.
- تحدد بعض المهارات التي يستخدمها العلماء.
- توضح المقصود بالفرضية.
- تميز الاختلاف بين الملاحظة والاستنتاج.

الأهمية

نستفيد من العلوم في تعرف العالم الذي نعيش فيه.

مراجعة المفردات

النظرية تفسر الأشياء أو الأحداث بناءً على المعرفة التي تم الحصول عليها من الملاحظات والتجارب.

الملاحظة سجل، أو وَصْف لمشاهدات أو أنماط في الطبيعة.

المفردات الجديدة

- العلوم
- التجربة المضبوطة
- الطريقة العلمية
- المتغير
- القانون العلمي
- المتغير المستقل
- الفرضية
- المتغير التابع
- الاستدلال
- الثوابت
- النظرية العلمية

التعلم عن العالَم

عندما تفكر في العالِم، فهل تتخيل شخصًا في مختبر محاطًا بالجداول والرسوم البيانية والزجاجات وأنابيب الاختبار؟ إنَّ أي شخص يحاول أن يتعلم شيئًا ما عن طبيعة العالَم هو عالِم.

العلوم طريقة لتعلم المزيد حول العالَم الطبيعي. فالعالِمُ يسعى إلى معرفة لماذا أو كيف أو متى تحدث الأشياء؟ من خلال ملاحظتها وطرح أسئلة حولها. وقد أثنى الله عز وجل على التفكير في ملكوته لندرك من خلاله عظمة الخالق وحكمته، فقال سبحانه: ﴿ ٱلَّذِينَ يَذْكُرُونَ ٱللَّهَ قِيَـٰمًا وَقُعُودًا وَعَلَىٰ جُنُوبِهِمْ وَيَتَفَكَّرُونَ فِى خَلْقِ ٱلسَّمَـٰوَٰتِ وَٱلْأَرْضِ رَبَّنَا مَا خَلَقْتَ هَـٰذَا بَـٰطِلًا سُبْحَـٰنَكَ فَقِنَا عَذَابَ ٱلنَّارِ ﴿١٩١﴾ ﴾ آل عمران.

طرح الأسئلة يطرح العلماء العديد من الأسئلة حول العالم الطبيعي، مثل: مم تتكون الأشياء؟ وما آلية عملها؟ وما سبب وقوع حدثٍ ما؟ ويحاولون الإجابة عن هذه الأسئلة من خلال العلم. لكن بعض الأسئلة لا يمكن الإجابة عنها من خلال العلم. فمثلاً، لا يدلك العلم الطبيعي على الصواب والخطأ، أو عن الجيد والرديء، أو من صديقك المفضل، ولمن تصوت...إلخ.

تفسيرات محتملة إذا كان التعلم عن العالَم يبدأ بطرح أسئلة، فهل يستطيع العلم الإجابة عنها؟ تُقدم العلوم إجابات عن الأسئلة من خلال المعلومات المتوافرة في ذلك الوقت. لكن الإجابات التي يقدمها العلم ليست قطعية دائمًا؛ لأن الإنسان لا يعرف كل شيء عن العالَم المحيط به. وكما يبين **الشكل ١**، فإن بعض المشاهدات قد تجبر العلماء على البحث في الأفكار القديمة، والتفكير في تفسيرات جديدة. فالعلوم تقدم فقط تفسيرات محتملة.

ماذا قرأت؟ لماذا لا تستطيع العلوم الإجابة عن الأسئلة بجزم دائمًا؟



الشكل ١ عندما تتوافر معلومات جديدة يمكن أن تتغير التفسيرات القديمة أو تُرفض؛ كما يمكن أن توضع تفسيرات جديدة.

وزارة التعليم
Ministry of Education
2021 - 1443

p12-39.indd 18 03/04/2019 8:07 PM

النظريات العلمية هي محاولة لتفسير سلوك أو نمط معين تم ملاحظته مرارًا في العالم الطبيعي، و**النظريات العلمية** ليست مجرد تخمينات عشوائية أو آراء أشخاص، وليست كذلك أفكارًا غامضة. وإنما يجب أن تُدعم النظرية بالملاحظات والاستقصاءات العلمية. وعلى الرغم من أن النظرية هي أفضل تفسير ممكن في ضوء البيانات الحالية، إلا أنها قابلة للتغير في ضوء بيانات جديدة لا تدعم النظرية القائمة، وعندئذ لابد أن تتطابق النظرية الجديدة والملاحظات والبيانات الجديدة.

القوانين العلمية تسمى القاعدة التي تصف نمطًا أو سلوكًا معينًا في الطبيعة **القانون العلمي**. ولكي تصبح الملاحظة قانونًا يجب أن تشاهد مرات كثيرة. ويساعد القانون العلمي على توقع حدوث الأشياء، فمثلا قد يساعدنا القانون على التنبؤ بسقوط حبة التفاح في اتجاه الأرض، لكنه لا يفسر وجود الجاذبية الأرضية، ولا يوضح عملها، فالقانون بخلاف النظرية لا يشرح سبب حدوث الأشياء، وإنما يصف فقط نمطًا معينًا.



الشكل٢ عالم البراكين يدرس درجة حرارة الصهارة الخارجة من البركان.

فروع العلوم

تُقسم العلوم إلى ثلاثة فروع: علم الأحياء، وعلم الأرض والفضاء، والعلوم الطبيعية، وكل منها يتكون من أنظمة مختلفة.

يهتم **علم الأحياء** بدراسة المخلوقات الحية وطرائق ارتباطها معًا، من خلال الإجابة عن أسئلة، منها: كيف تمنع اللقاحات الإصابة بالأمراض؟ أين تعيش المخلوقات؟ وكيف ترتبط بعلاقات بينها؟

أمّا **علم الأرض والفضاء** فيُعنى بدراسة أنظمة الأرض والفضاء، ويتضمن دراسة الأشياء غير الحية، ومنها: الصخور، والتربة، والغيوم، والأنهار، والطقس، والمناخ، والنجوم، والكواكب، وتضاريس الكواكب، واحتمال وجود الماء فيها. كما يدرس علماء الأرض تضاريس الأرض ويعملون خرائط لها ويدرسون كيفية حدوث الزلازل والبراكين، والمتغيرات المرتبطة معها. ويبين **الشكل ٢** أحد علماء الأرض المختصين بدراسة البراكين أثناء قيامه بعمله.

ماذا قرأت؟ ماذا يدرس علماء الأرض؟

الأشياء الغير حية مثل الصخور والتربة والغيوم والأنهار والطقس والمناخ والنجوم والكواكب إلى غيرها

أما **العلوم الطبيعية** فهي العلوم التي تهتم بدراسة المادة والطاقة. والمادة هي أي شيء يشغل حيزًا وله كتلة. أما الطاقة فهي القدرة على إحداث تغيير في المادة. وتقسم العلوم الطبيعية إلى فرعين رئيسين، هما: الكيمياء، والفيزياء. فالكيمياء علم يهتم بدراسة المادة وتفاعلاتها كما في **الشكل ٣**. أمّا الفيزياء فعلم يهتم بدراسة الطاقة وقدرتها على تغيير المادة.



الشكل٣ باحث كيمياء يدرس التفاعلات الكيميائية.

p12-39.indd 19 03/04/2019 8:07 PM

الممارسات العلمية

إنك تعلم أن العلوم تتضمن دائمًا أسئلة، ولكن كيف تقود هذه الأسئلة إلى التعلم؟ لأنه لا توجد طريقة واحدة للحصول على المعرفة، فإن العلماء لديهم مجموعة كبيرة من المهارات، تتضمن مهارات التفكير، والملاحظة، والتنبؤ، والاستقصاء، والبحث، والنمذجة، والقياس، والتحليل، والاستدلال.

الطرائق العلمية كما يوضح الشكل ٤، فإنَّ معظم الاستقصاءات تبدأ عادةً بمشاهدة شيء ما، ثم تُطرح أسئلة عما تم ملاحظته. والعلماء عادةً يتعاونون على كتابة أبحاثهم. ولذلك فإنهم يقرؤون كتبًا ومجلات علمية للاطلاع على ما سبق التوصل إليه من العلماء الآخرين بخصوص أسئلتهم. ويضع العلماء عادةً تفسيرات محتملة لملاحظاتهم. وللحصول على معلومات أكثر، فإنهم يبنون نموذجًا للشيء الذي يقومون بدراسته واستقصائه. وكل العمليات السابقة متضمنة في **الطريقة العلمية**.

التساؤل والملاحظة قام معلم العلوم بوضع صندوق على طاولة المختبر أمام جميع الطلاب، ثم طرح عليهم السؤال التالي: ماذا يوجد داخل الصندوق؟

قال أحد الطلاب هل يمكن لمس الصندوق؟

قال المعلم نعم.

فقام أحد الطلاب بتحريك الصندوق أكثر من مرة، ولاحظ أنه ليس ثقيلاً. وقام طالب آخر بهز الصندوق، فسمع طلاب الصف صوت اهتزاز لمواد فلزية (حديد، ألومنيوم مثلاً) ثم مُرِّرَ الصندوق على جميع طلاب الصف لإبداء ملاحظاتهم وتدوينها في دفاتر العلوم. انظر الشكل ٥.

الشكل ٤ بالرغم من وجود طرائق علمية مختلفة لاستقصاء مسألة معينة، إلا أن معظم الاستقصاءات تتبع نمطًا عامًا.





وضع توقعات بعد تدوين الملاحظات بدأ الطلاب بوضع التوقعات.

أحد الطلاب أتوقع وجود مقص داخل الصندوق.

طالب آخر أتوقع وجود دباسة داخل الصندوق.

المعلم لماذا تتوقع ذلك؟

الطالب لأن الدباسة صغيرة الحجم.

طالب آخر لأننا نسمع رنين مواد فلزية عند هز الصندوق.

المعلم إذًا أنتم تتوقعون أن ما بداخل الصندوق هي دباسة.

أحد الطلاب نعم.

المعلم إذًا فقد وضعتم فرضية.

أحد الطلاب ماذا؟

الفرضية الفرضية تخمين لجواب أو تفسير منطقي محتمل يعتمد على معرفتك وملاحظتك.

الشكل ٥ يبدأ الاستقصاء عادة بالملاحظات وطرح الأسئلة.



علماء الأحياء

يدرس علماء الأحياء المخلوقات الحية، من خلال الملاحظة؛ فهم يلاحظون الحيوانات، والنباتات في بيئاتها الطبيعية دون إزعاجها.

لاحظ مخلوقات حية: نباتات أو حيوانات في حديقة قريبة أو في حديقة المنزل، ثم سجل ما تلاحظه في دفتر العلوم.

وزارة التعليم
Ministry of Education
2021 - 14

p12-39.indd 21 03/04/2019 8:07 PM

تجربة

تكوين فرضية

الخطوات

١. املأ وعاءً كبيرًا بالماء، وضع فيه علبة غير مفتوحة من مشروب غازي يحتوي على السكر. وعلبة أخرى مماثلة بدون سكر، ثم لاحظ ماذا يحدث.

٢. ضع قائمة بالتفسيرات المحتملة لملاحظاتك في دفتر العلوم، ثم اختر أفضل تفسير، واكتب فرضية.

٣. اقرأ مكوّنات كل من العلبتين وقارن بينها.

٤. تأكد من صياغة فرضيتك بناءً على هذه المعلومات الجديدة.

التحليل

١. ماذا لاحظت عند وضع العلبتين في الماء؟

٢. ما أثر المعلومات الجديدة في تغيير فرضيتك؟

٣. استنتج سبب الاختلاف فيما حدث لكل منهما.

اختبار الفرضية المعلم: يبقى عقل العالم مفتوحًا للتفسيرات والاحتمالات المختلفة. ماذا يجب عليكم أن تعملوا إذا عرفتم معلومات جديدة لا تتفق مع فرضيتكم الأصلية؟ وما المعلومات الجديدة التي يمكن أن تجمعوها للتحقق من صحة فرضيتكم أو رفضها؟

طالب هل تقصد اختبارًا أو شيئًا من هذا القبيل؟

طالب آخر لدي طريقة لاختبار فرضيتنا.. نحضر صندوقًا شبيهًا بالصندوق الأول، ونضع فيه دباسة، ثم نغلقه ونهزه ونقارنه بالصندوق الأول.

قدم المعلم للطلاب صندوقًا فارغًا شبيهًا بالصندوق الأول ودباسة، فنفذ الطلاب اقتراح زميلهم لاختبار الفرضية.

طالب آخر إن الصندوق أثقل، ولكن لا أسمع صوتًا فلزيًّا مثل الصوت الصادر عند هزّ الصندوق الأصلي.

طالب آخر ماذا لو قسنا كتلة كل من الصندوقين باستخدام الميزان؟ انظر **الشكل ٦**.

وجد الطلاب أنّ كتلة الصندوق الأصلي تساوي ٢٧٠ جم، وأن كتلة صندوق التجربة تساوي ٤١٠ جم.

تنظيم النتائج بعد أن انتهى الطلاب من اختبار الفرضية، بدأ الحوار:

المعلم حسنًا! الآن حصلتم على معلومات جديدة. ولكن قبل وضع أيّ استنتاج عليكم تنظيم المعلومات جميعها، وبذلك يكون لدينا ملخص لملاحظاتنا يمكننا الرجوع إليه عندما نريد التوصل إلى نتائج.

أحد الطلاب من الممكن عمل جدول لتنظيم معلوماتنا في دفاتر العلوم.

طالب آخر نستطيع مقارنة ملاحظاتنا حول الصندوق الأصلي مع ملاحظاتنا حول الصندوق الجديد.



- لم تطف علبة المشروب الغازي العادية بينما طفت علبة المشروب الغازي المنخفضة السعرات الحرارية
- يدفع هذا إلى التفكير في أن سلوك العلبة اختلف نتيجة اختلاف مكوناتها
- تحتوي علبة المشروب الغازي العادية على كمية كبيرة من السكر للتحلية وتحتوي علبة المشروب الغازي المنخفضة السعرات الحرارية على كمية قليلة من المحلي الصناعي

وزارة التعليم
Ministry of Education
2021 - 1443

جدول ١ : مخطط الملاحظات		
أسئلة حول ما بداخل الصندوق	الصندوق الأصلي	صندوق التجربة
- هل يتدحرج أم ينزلق؟	- ينزلق ويبدو أنه منبسط / مسطح.	- ينزلق ويبدو أنه منبسط / مسطح.
- هل يصدر صوتًا؟	- يصدر صوتًا يماثل أصوات الفلزات (حديد، ألومنيوم...)	- يصدر صوتًا مكتومًا.
- هل تتوزع الكتلة بشكل منتظم في الصندوق كله؟	- لا. الجسم لا يملأ الصندوق كله.	- لا. كتلة الدباسة غير موزعة بانتظام.
- ما كتلة الصندوق؟	- ٢٧٠ جم.	- ٤١٠ جم.

الاستنتاجات

المعلم ماذا تعلمتم من الاستقصاء الذي قمتم به؟

أحد الطلاب أول شيء تعلمناه هو أن فرضيتنا لم تكن صحيحة.

طالب آخر الصندوقان ليس لهما الكتلة نفسها، وصندوق التجربة لا يصدر الصوت نفسه مثل الصندوق الأصلي. وكذلك قد يختلف نوع مادة الدباسة في الصندوق الأصلي عما في صندوق التجربة.

المعلم إذن، أنتم استدللتم على أن الجسم في الصندوق الأصلي يختلف عن الجسم الموجود في صندوق التجربة.

أحد الطلاب ماذا تقصد يا معلمي بالاستدلال؟

المعلم **الاستدلال** هو التوصل إلى استنتاجات بناء على المشاهدات السابقة.

طالب آخر إذن، نحن استدللنا على أن الجسمين مختلفان؛ لأن ملاحظاتنا عن الصندوقين مختلفة، أي أننا عدنا إلى نقطة البداية.

المعلم إذا كانت ملاحظاتكم لا تدعم فرضيتكم، فإن لديكم الآن معرفة أكثر من السابق.

أحد الطلاب هل نستطيع فتح الصندوق لنعرف ما بداخله؟

المعلم هل تتوقع أن العلماء يستطيعون النظر إلى الأشياء التي يدرسونها دائمًا؟

طالب آخر أتوقع أنهم لا يستطيعون ذلك وخصوصًا إذا كان الشيء كبيرًا جدًّا أو صغيرًا جدًّا.

المعلم إذن، عليكم جمع المزيد من الملاحظات والمعلومات أو وضع فرضيات أو عمل أبحاث جديدة.

المعلم كثير من العلماء أمضوا حياتهم في البحث عن إجابات، وتحلّوا بالصبر والمثابرة.

العلوم عبر المواقع الإلكترونية

الطرائق العلمية

ارجع إلى المواقع الإلكترونية عبر شبكة الإنترنت.

نشاط حدد المتغيرات الثلاثة التي تحتاج إليها في كل تجربة، واشرح الفرق بينها.

تجربة عملية حل المشكلة بالطريقة العلمية

ارجع إلى كراسة التجارب العملية على منصة عين



وزارة التعليم
Ministry of Education
2021 - 1443

p12-39.indd 23 03/04/2019 8:07 PM



الشكل٧ العروض من الطرائق المستخدمة في العلوم لنقل النتائج إلى الآخرين.

التواصل حول نتائج الأبحاث كثيرًا ما يكمل عالم عمل عالم آخر، كما أنه من المعتاد أن يعيد عالم ما قام به غيره من العلماء. لذلك يقوم العلماء دائمًا بنشر ما يتوصلون إليه من نتائج، وكذلك الطرائق التي يستخدمونها في البحث، عن طريق المجلات، والكتب، والإنترنت، كما يحضرون المؤتمرات ويشاركون بإلقاء الكلمات عن إنجازاتهم حتى يستفيد منها علماء آخرون **الشكل ٧**.

ماذا قرأت؟ لماذا يتشارك العلماء في المعلومات؟

حتى يتمكن علماء آخرون من الاستمرار في العمل أو إعادة ما قاموا به .

التجارب

قام طلاب الصف بإجراء العديد من الملاحظات حول الصندوق الأصلي وصندوق التجربة. ولمعرفة المزيد عمّا بداخل الصندوق قاموا بعمل نموذج وهو صندوق التجربة. وكانت بعض أسئلة الطلاب تدور حول تأثير عامل في عامل آخر. ومن الطرائق المستخدمة في استقصاء هذه الأسئلة إجراء تجربة مضبوطة. والتجربة المضبوطة تتضمن تغيير عامل وملاحظة تأثيره في عامل آخر، مع ثبات العوامل الأخرى.

المتغيرات والثوابت تخيل سباقًا تختلف فيه أطوال المسارات، فبعضها طوله ١٠٢م، وبعضها الآخر طوله ٩٨م، وبعضها طوله ١٠٠م انظر **الشكل ٨**. ترى كيف نحدد الأسرع؟ هل هو الذي يصل إلى خط النهاية أولاً؟ ليس من

الشكل٨ سباق الأربع مئة متر من الأمثلة على التجارب المضبوطة؛ فالمسافة والمادة المصنوعة منها أرضية السباق وسرعة الرياح من الثوابت. أما قدرات المتسابقين والزمن الذي يحتاج إليه كل منهم للوصول إلى خط النهاية فهي متغيرات.



وزارة التعليم
Ministry of Education
2021 - 1443

p12-39.indd 24 03/04/2019 8:07 PM

الضروري؛ لأن المسارات تختلف في أطوالها. **المتغيرات** عوامل يمكن أن تُغَيَّر أثناء التجربة. والعوامل التي يتم تغييرها أثناء التجربة تُسمى **متغيرات مستقلة**. والعوامل التي تتغير بسبب تغيير العوامل المستقلة تُسمى **متغيرات تابعة**. وهناك عوامل يتم ضبطها أثناء التجربة ولا تتغير تُسمى **الثوابت**.

الـدرس

اختبر نفسك

١. **قارن** بين النظرية العلمية والقانون العلمي.

٢. **اشرح** كيف يمكن أن تتغير النظرية العلمية.

٣. **وضّح** لماذا يستطيع العلم أن يجيب عن بعض الأسئلة، بينما لا يمكنه أن يجيب عن أسئلة أخرى؟

٤. **صنف** الجملة التالية، هل هي نظرية أم قانون؟«تسخين الهواء الموجود في بالون يجعل البالون يرتفع عاليًا».

٥. **اشرح** الفرق بين الملاحظة والاستنتاج.

٦. **اشرح** الفرق بين المتغيرات المستقلة والمتغيرات التابعة في تجربة ما.

تطبيق الرياضيات

٧. استنتج يسأل العلماء أسئلة ويجرون ملاحظات. ما أنواع الأسئلة والملاحظات التي تقوم بها لو كنت عالمًا يقوم بدراسة أفواج الأسماك في المحيط؟

١ – قارن : النظرية العلمية تحاول تفسير سبب وقوع الأحداث
القانون العلمي : يصف أحداث نمطية تتكرر في الطبيعة .
٢ – اشرح : تتغير النظرية العلمية عندما تعجز عن تفسير معلومات أو ملاحظات
٣ – وضح : يجيب العلم عن الأسئلة المتعلقة بالعالم الطبيعي عن طريق الملاحظات والاستقصاءات ولا يستطيع العلم الإجابة عن الآراء والأسئلة المتعلقة بالفن والكتب والموسيقى
٤ – صنف : قانون علمي
٥ – اشرح : يتم التوصل إلى الملاحظة عن طريق الحواس ، أما الاستنتاج فيتم التوصل إليه عن طريق العمليات العقلية
.
٦ – اشرح : المتغير المستقل هو المتغير الذي يتم تغييره أثناء التجربة
المتغير التابع هو المتغير الذي يتبع في تغييره المتغير المستقل
٧ – استنتج :
ما أنواع الأسماك في الأفواج.
لماذا يسبح الأسماك في أفواج.
في أي الأوقات تسبح الأسماك في أفواج.
هل السباحة في أفواج تقلل التعرض للمخاطر والأعداء.
.

p12-39.indd 25 ... 8:07 PM

الدرس ٢

رابط الدرس الرقمي
www.ien.edu.sa

النماذج العلمية

في هذا الدرس

الأهداف

- تصف أنواعًا مختلفة من النماذج.
- تناقش كيفية تغير النماذج بتطور المعرفة.

الأهمية

- تساعد النماذج على توضيح المفاهيم الصعبة.

مراجعة المفردات

الطريقة العلمية عمليات يستخدمها العلماء لجمع المعلومات والإجابة عن الأسئلة.

المفردات الجديدة

- النموذج

أهمية النماذج

كما أنه باستطاعتك أن تستخدم عدة طرائق للبحث، يمكنك أيضًا أن تختبر الفرضية بعدة طرائق مختلفة. وقد قام الطلاب في الدرس السابق باختبار فرضيتهم من خلال عمل نموذج للصندوق الأصلي. فبناء النماذج يساعد على اختبار الفرضية. وفي العلوم، **النموذج** محاكاة لشيء ما أو حدث ما، ويستخدم كأداةً لفهم العالم الطبيعي؛ حيث تساعد النماذج على تصور أو تخيل الأشياء التي يصعب رؤيتها أو فهمها. فطلبة الصف قاموا بعمل نموذج لأنهم لم يستطيعوا رؤية ما بداخل الصندوق الأصلي.

وتستخدم النماذج أيضًا لتمثيل أشياء قد تكون صغيرة جدًّا، أو كبيرة جدًّا، أو لأحداث سريعة جدًّا، أو بطيئة جدًّا. ويوضح الشكل ٩ أنواعًا من النماذج.

أنواع النماذج

هناك ثلاثة أنواع من النماذج: نماذج مادِّية، ونماذج حاسوبية، ونماذج فكرية. وقد يستخدم العلماء نوعًا واحدًا أو أكثر من النماذج.

النماذج المادية نماذج يمكن لمسها أو رؤيتها. ومنها: نموذج الكرة الأرضية، أو نموذج التركيب الداخلي للخلية، أو نموذج مركب كيميائي.

الشكل ٩ تساعد النماذج العلماء على تَخيُّل أو تصوُّر الأشياء المعقدة أو الأشياء التي لا يمكن رؤيتها ودراستها مباشرة.

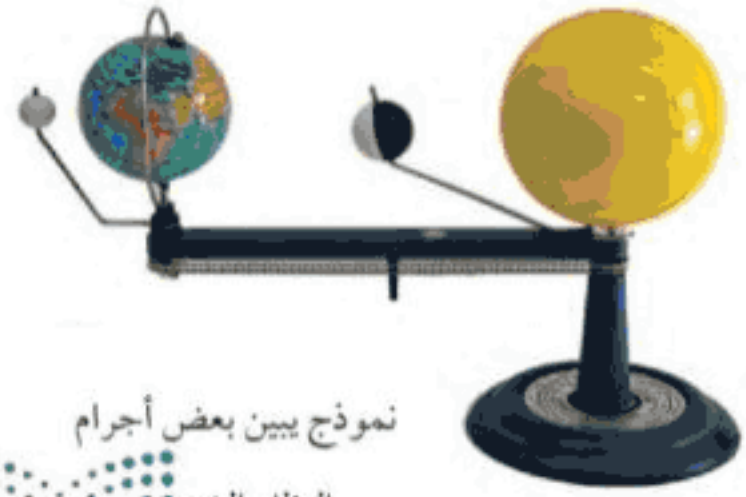

نموذج يبين بعض أجرام النظام الشمسي



نموذج التركيب الداخلي للخلية

وزارة التعليم
Ministry of Education
2021 - 1443

p12-39.indd 26 03/04/2019 8:07 PM



النماذج الحاسوبية نماذج يتم بناؤها ببرامج حاسوبية. ولا يمكن لمسها، بل تعرض على شاشة الحاسوب، وتوضح حوادث لا يمكن رؤيتها بسبب طول زمن حدوثها، أو سرعة حدوثها. ومن ذلك استخدام الحاسوب في عمل نموذج لحركة الصفائح الأرضية، أو عمل نماذج لحركة أو مواقع أشياء قد تستغرق ساعات أو أيامًا لحسابها يدويًّا. ويوضح **الشكل ١٠** استخدام النماذج الحاسوبية في التنبؤ بالطقس.

الشكل ١٠ خريطة الطقس نموذج حاسوبي يظهر حالة الجو في مناطق واسعة. ويستخدمها العلماء في

ماذا قرأت؟ ما أهمية النماذج الحاسوبية؟

١ – توضح حوادث لا يمكن أو يصعب رؤيتها بسبب طول زمن حدوثها أو سرعة حدوثها .
٢ – توضح مواقع الأجسام وحركاتها التي قد تستغرق حسابها ساعات أو أيام

النماذج الفكرية هي أفكار أو مفاهيم تصف كيف يفكر شخص ما في شيء معين في العالم الطبيعي. ومن ذلك النموذج الذي استخدمه أينشتاين في نظريته حول المادة والطاقة، وكان في صورة معادلة رياضية. ولا يمكن لنموذج أينشتاين أن يكون نموذجًا ماديًّا؛ لأنه يعتمد على الأفكار.

عمل النماذج

تشبه طريقة عمل النماذج عملية رسم صورة لشخص غير معروف، حيث يقوم الرسام برسم صورة ذلك الشخص من خلال الأوصاف التي حصل عليها. وكلما كانت الأوصاف دقيقة كانت الصورة أفضل؛ أي أكثر مطابقة للشخص. وكذلك كلما زادت كمية المعلومات التي يجمعها العلماء حول شيء ما كان النموذج أكثر دقة.

وزارة التعليم
Ministry of Education
2021 - 14

p12-39.indd 27 03/04/2019 8:07 PM

استخدامات النماذج

عندما تفكر في النماذج قد يخطر ببالك نموذج لطائرة أو مبنى مما يستخدم في اللعب أو العرض؛ فليست جميع النماذج للاستخدام العلمي، لكنك تستخدم النماذج كثيرًا، وربما لاتدرك ذلك؛ فالرسوم التوضيحية والخرائط والنماذج الكروية هي جميعًا أمثلة للنماذج، ولها استخدامات مختلفة:

استخدام النماذج في التواصل تُستخدم بعض النماذج في عمليات التواصل العلمي لنقل الملاحظات والأفكار للآخرين، فنقل بعض الأفكار عن طريق عمل نموذج يوضحها أسهل من الكتابة عنها للآخرين، كما أن النماذج تيسر على الآخرين تصور الأفكار بطريقة محسوسة.

استخدام النماذج لاختبار التوقعات والفرضيات تُستخدم بعض النماذج لاختبار التوقعات، كما حدث مع الطلاب الذين درست عنهم آنفًا؛ فقد توقعوا أن يكون لصندوق يحوي دباسةً نفس خصائص الصندوق المغلق الذي أعطاه المعلم لهم، وللتحقق من صدق توقعهم عملوا نموذجًا باستخدام دباسة وصندوق مشابه للصندوق الأصلي. وكذلك يستخدم المهندسون الأنفاق الهوائية لدراسة أثر الرياح على أداء السيارات والطائرات التي يصممونها.

استخدام النماذج لتوفير الوقت والمال والمحافظة على الأرواح في بعض الحالات تُستخدم النماذج لأن التعامل معها وإجراء الاختبارات عليها أكثر أمانًا وأقل تكلفة من استخدام الجسم الأصلي. من ذلك استخدام الدُّمَى بدلا من البشر لاختبار أثر حوادث التصادم بين السيارات في راكبيها، واستخدام وكالات الفضاء لنماذج طائرات تهيئ ظروفاً تحاكي الوضع في الفضاء لتدريب طاقم رواد الفضاء، كما في الشكل ١١. مما يقلل التكلفة وييسر مهمات التدريب، ويحافظ على



الشكل ١١ يتدرب رواد الفضاء في طائرة خاصة تهيئ ظروفاً تحاكي الوضع في الفضاء

تجربة

التفكير كالعلماء

الخطوات

١. صبّ ١٥ مل من الماء في أنبوب اختبار.

٢. صبّ ببطء ٥ مل من زيت نباتي في أنبوب الاختبار.

٣. أضف قطرتين من صبغة الطعام إلى أنبوب الاختبار، ولاحظ السائل مدة ٥ دقائق.

التحليل

١. دوّن ملاحظاتك حول أنبوب الاختبار قبل إضافة الزيت النباتي والصبغة الغذائية وبعد إضافتهما.

٢. استخلص تفسيرًا علميًا لملاحظاتك.

١- دون قبل اضافة الزيت والصبغة لا ينتج اي تغير علي سطح الماء في انبوبة الاختبار، بعد اضافة الزيت النباتي الي الماء يطفو قطرات الزيت فوق سطح الماء في الانبوبة ، وعند اضافة الصبغة الغذائية تعمل علي ذوبان قطرات الزيت داخل الماء ويحدث انفجار علي شكل دوامات لونية .

٢- استخلص الماء لا يمتزج مع الزيوت ، بينما يتفاعل مع صبغات الطعام .

p12-39.indd 28 03/04/2019 8:07 PM

بفضل ملاحظاتهم أن الأجرام التي نراها – ومنها الشمس والقمر والكواكب والنجوم– جميعها تدور في السماء، فتغير النموذج ليُظهر الأرض في المركز والأجرام تدور حولها، كما في الشكل١٢.

ومع تزايد الملاحظات وتحسن دقتها اكتشف العلماء أن الشمس هي مركز النظام الشمسي، في حين تدور الأرض حولها مثلها مثل بقية الكواكب، واكتشفوا أيضًا أن للكواكب الأخرى أقمارًا، فطوروا نموذجًا جديدًا للنظام الشمسي يوضح ذلك. لم يقصد العلماء من النماذج الأولية أن يضللوا الآخرين طبعًا؛ فالعلماء يبذلون قصارى جهدهم لعمل أفضل النماذج بما يتفق مع ما لديهم من معلومات، وقد منحت نماذجهم أساسًا للعلماء اللاحقين ليطوروا ويبنوا

ت بالضرورة



أ- في نموذج قديم للنظام الشمسي ظهرت الأرض في المركز بينما تدور بقية الأجرام حولها.



ب- تطور نموذج جديد فيما بعد ظهرت فيه الشمس في المركز وبقية الأجرام تدور حولها.

الشكل١٢ أ-ب تغير نموذج النظام الشمسي في كل مرة حصل فيها العلماء على معلومات جديدة.

اختبر نفسك

١. **استنتج** ما أنواع النماذج التي تستخدم لنمذجة الطقس؟ وكيف تستخدم لتوقع الطقس؟
٢. **وضح** كيف تستخدم النماذج في العلوم؟
٣. **صف** مزايا أنواع النماذج الثلاثة وحدود إمكاناتها.

تطبيق الرياضيات

٤. يبين مقياس رسم إحدى الخرائط أن كل ١ سم يعادل ٥ كم. إذا كانت المسافة بين قريتين ١,٧ سم على الخريطة، فما المسافة الحقيقية التي تفصل بين القريتين بالكيلومترات؟

١ – استنتج :
تستخدم النماذج الحاسوبية لنمذجة الطقس

٢ – وضح :
تستخدم النماذج كأداة لفهم العالم الطبيعي ، تساعد في تخيل و فهم الأشياء التي يصعب رؤيتها مثل تركيب الخلية و مكونات الذرة .

٣ – صف :
النماذج المادية : يمكن لمسها و رويتها مثل نموذج الكرة الأرضية
النماذج الحاسوبية : نماذج لا يمكن لمسها، توضح حوادث لا يمكن رؤيتها بسبب طول زمن حدوثها أو سرعة حدوثها مثل نموذج لحركة الصفائح الأرضية أو نموذج تنبؤ الطقس .
النماذج الفكرية : هي أفكار أو مفاهيم تصف كيف يفكر شخص ما في شئ ومن ذلك النموذج الذي استخدمه أينشتاين في نظريته حول المادة و الطاقة

٤ – تطبيق الرياضيات :
١,٧ × (٥ كم / ١ سم) = ٨,٥ كم

p12-39.indd 29 08/04/2019 1:52 PM

الدرس ٣

رابط الدرس الرقمي

www.ien.edu.sa

تقويم التفسيرات العلمية

في هذا الدرس

الأهداف

- تقوّم التفسيرات العلمية.

الأهمية

تقويم الادعاءات والتفسيرات العلمية يساعد على اتخاذ قرارات صائبة.

مراجعة المفردات

التوقع تخمين عقلي لما سيحدث بناء على ملاحظات ومعرفة سابقة

المفردات الجديدة

- التفكير الناقد
- البيانات

صدّق أو لا تصدّق

انظر إلى الشكل ١٣، هل تصدق ما ترى؟ هل تصدق كل شيء تقرؤه أو تسمعه؟ فكر في شيء أخبرك به شخص ولم تصدقه. ولماذا لم تصدقه؟ وعندما تسمع عبارة معينة من شخص فإنك تسأل: «كيف عرفت ذلك؟». فإذا قررت أن ما تسمعه موثوق به فإنك تصدقه. وإذا كان غير موثوق به فإنك لا تصدقه.

التفكير الناقد عندما تقوّم شيئًا فإنك تستخدم التفكير الناقد. **التفكير الناقد** هو الربط بين ما تعرفه من معلومات مع الحقائق الجديدة لتقرر ما إذا كنت توافق على شيء ما. ويمكن تقويم أي تفسير من خلال تقسيمه إلى جزأين:

أولاً: تقويم الملاحظات بالاعتماد على المعلومات المتوافرة لديك، ثم تقدر مدى دقتها. ثانيًا: تقويم الاستنتاجات التي تم بناؤها اعتمادًا على الملاحظات. وتقرير ما إذا كانت تلك الاستنتاجات معقولة أم لا.

تقويم البيانات

البيانات معلومات يتم تجميعها أثناء البحث العلمي من خلال الملاحظات، ويمكن تدوينها على شكل وصف، أو جداول، أو رسوم بيانية، أو أشكال. وعندما تقوّم ادّعاءً علميًّا، فقد تطلب أولاً أيّ بيانات مقدّمة معه. وعليك أن تحذر من تصديق أي ادّعاء غير مدعوم بالبيانات.



الشكل ١٣ في العلوم، لا يتفق الجميع على الملاحظات والاستنتاجات دائمًا.

قارن هل ترى الأشياء نفسها التي يراها زملاؤك في الصورة؟

وزارة التعليم
Ministry of Education
2021 - 1443

p12-39.indd 30 03/04/2019 8:07 PM

جدول ٢ : الطعام المفضل		
رغبات الناس	السجل / التعداد	التكرار
لحم الغنم	𝍸 𝍸 𝍸 𝍸 𝍸 𝍸 𝍸 𝍸 𝍸 𝍸 ||	٣٧
الدجاج	𝍸 𝍸 𝍸 𝍸 𝍸 𝍸 𝍸 𝍸 |||	٢٨

هل البيانات محدّدة؟ يجب أن تكون البيانات محدَّدة، أيْ دقيقة. فإذا أخبرك صديقك أن معظم الناس يحبون لحم الأغنام أكثر من لحم الدجاج فما البيانات التي تحتاج إليها لتتفق مع صديقك في الرأي؟ لعلك تحتاج أن تعرف عدد الذين يفضلون لحم الغنم، وعدد الذين يفضلون لحم الدجاج في عدد محدد (عينة) من الناس. فعندما تحصل على بيانات محددة تصبح العبارة موثوقًا بها وأكثر قابلية للتصديق. ويمثل **الجدول ٢** طريقة لعرض البيانات تسمى الجدول التكراري، حيث يبين الجدول التكراري؛ عدد مرات حدوث بيانات من أنواع معينة.

تدوين ملاحظات جيدة يجب على العلماء أن يدوّنوا ملاحظاتهم تدوينًا شاملاً وكاملاً أثناء إجراء الاستقصاء، انظر إلى **الشكل ١٤**؛ إذ من الممكن فقدان كثير من التفاصيل المهمة إذا لم يتم تدوين الملاحظات في وقتها. كما يجب تدوين أي ملاحظة مَهْما كانت بسيطة أو غير متوقعة.

دفتر العلوم عندما تسجل ملاحظاتك في دفتر العلوم يجب أن تكون هذه الملاحظات مفصّلة بحيث يستطيع أي شخص أن يقرأها ويعيد التجربة تمامًا كما أجريتها أنت.

الشكل ١٤ هذان العالمان يسجلان ملاحظاتهما خلال الاستقصاء وقبل أن يعودا إلى اليابسة.

سجّل استنتاجاتك هل تتوقع أن ذلك يزيد أم يقلل من مصداقية بياناتهما؟

بالطبع ستزيد المصداقية لأنه سيكون من المستبعد نسيان شيء مهم



p12-39.indd 31 03/04/2019 8:07 PM

لذلك فإن كتابة الملاحظات خلال التجربة مباشرة أدق من كتابتها فيما بعد، اعتمادًا على الذاكرة. استخدم مهارتك في الملاحظة لوصف ما تشاهده في الشكل ١٥.

هل يمكن الحصول على البيانات ذاتها مرة أخرى؟ إذا أخبرك صديقك أنه تمكن من قذف كرة مسافة ١٠٠ م باستخدام مضرب فلعلك تطلب إليه أن يكرر ذلك أمامك، ولعلك تشكك في مصداقية روايته إن لم يتمكن من تكرار الضربة! بالمثل يطلب العلماء أدلة قابلة للتكرار، وعندما يصف عالم استقصاءً ما لابد أن يكون العلماء الآخرون قادرين على الحصول على النتائج نفسها عند تكرارهم للاستقصاء، وهذا ما يُقصد بالبيانات القابلة للتكرار. عندما تقوّم بيانات علمية عليك أن تبحث فيما إذا تمكن علماء آخرون من تكرار الحصول على هذه البيانات، وإلا فإن هناك شكًا في مصداقية هذه البيانات.

تقويم الاستنتاجات

إذا أردت أن تقوّم استنتاجًا توصل إليه شخص فما عليك إلا أن تطرح على نفسك سؤالين؛ الأول: هل يبدو هذا الاستنتاج معقولاً؟ والثاني: هل هناك تفسيرات أخرى ممكنة (غير الاستنتاج المطروح)؟ لنفترض أنك سمعت خبرًا من المذياع أن الدوام المدرسي في مدرستك سيبدأ متأخرًا ساعتين، وقال لك زميلك إن سبب ذلك هبوب عاصفة رملية. ولكن عندما نظرت من النافذة وجدت أن الجو صحو والسماء صافية، فهل يكون استنتاج زميلك أن سبب التأخير بسبب العاصفة الرملية معقولاً؟ إذا افترضنا جدلاً أن الاستنتاج معقول وأن الشواهد تؤيده، فهل ينتهي تقويم الاستنتاج عند هذا الحد؟ لا، فعليك أن تسأل: ما الأسباب الأخرى التي قد تسبب التأخير؟ قد تكون منطقة ما حول المدرسة تعاني من تدني الرؤية بسبب الضباب، وقد يكون هناك عطل في أحد مباني المدرسة. تبقى مصداقية الاستنتاج الأصلي موضع شك حتى يثبت أن جميع التفسيرات الواردة الأخرى غير محتملة.

تقويم المواد الدعائية

هل تُستخدم عمليات العلم فقط في المختبر؟ افترض أنك رأيت إعلانًا في إحدى وسائل الإعلام، كما في الشكل ١٦ ما رأيك فيه؟ في البداية يمكن أن تسأل نفسك: هل هذا صحيح؟ يبدو من الإعلان أنه غير قابل للتصديق. إذن عليك الحصول على بيانات علمية تؤكد هذا الادعاء قبل تصديقه.

فكيف يمكنك فحص هذا الادعاء؟ وكيف يمكنك التأكد من المعلومات التي يتضمنها الإعلان؟ قد ترغب في الحصول على



الشكل ١٥ الملاحظات المفصلة مهمة للحصول على بيانات موثوق بها.

لاحظ استعمل عشر كلمات لتصف ما تراه في الصورة.

الشكل ١٦ يجب قراءة جميع المواد وتحليلها بشكل دقيق.

وضح ماذا يعني هذا الإعلان؟

لاحظ : سلكا حلزوني الشكل فضي اللون في الماء وقطعة بلاستيكية حمراء وأخرى خضراء في الماء أيضًا وهناك فقاعات كثيرة حول الملف

وضح : إذا رأيت إعلانًا مثل الصورة المقابلة اطرح على نفسك تساؤل هل هذا صحيح ؟ يبدو من الإعلان أنه غير قابل للتصديق ! إذا يجب الحصول على بيانات علمية تؤكد هذا الإعلان .

وزارة التعليم
Ministry of Education
2021 - 1443

p12-39.indd 32 03/04/2019 8:07 PM

نتائج من أحد المختبرات المستقلة الموثوقة تؤكد أو تنفي المعلومات المتضمنة في الإعلان؛ فالنتائج التي تحصل عليها من مختبر مستقل تكون أفضل من النتائج التي تحصل عليها من مختبر تابع للشركة صاحبة المنتج.

وتصمّم المواد الإعلانية لحثّك على شراء المنتج، ولهذا من المهمّ تقييم معلومات المنتج وبياناته التي تدعم ذلك الادعاء قبل اتخاذ قرار شراء المنتج وإنفاق أموالك.

مراجعة الدرس ٣

الخلاصة

صدّق أو لا تصدّق

من خلال دمج معلوماتك السابقة مع المعلومات الجديدة تستطيع أن تقرر ما إذا كان موضوع ما واقعيًا، وقابلًا للتصديق.

تقويم البيانات

من المهم تسجيل الملاحظات خلال تنفيذ الاستقصاء.

البيانات المعتمدة أو الموثوقة بيانات محددة، وقابلة للتكرار.

تقويم الاستنتاج

يجب أن يكون للاستنتاجات معنى حتى يمكن اعتمادها.

تقويم المواد الدعائية

تقوم المختبرات المستقلة الموثوقة بفحص المنتجات للتأكد من صلاحيتها.

اختبر نفسك

١. **صف** أهمية إعادة التجارب العلمية.

٢. **وضح** كيف يمكن أن تكون الإعلانات التجارية مضللة؟

تطبيق المهارات

٣. **صنف** شاهد ثلاثة إعلانات تجارية تُبثّ من خلال التلفاز، واقرأ ثلاثة من الإعلانات التي تنشر في الجرائد، ثم سجل ما يدّعيه كلٌّ منها، وصنفها إلى: إعلانات واقعية، أو مضَلِّلة، أو علمية.

١ - **صف** : للتأكد من مصداقية النتائج التي تم التوصل إليها عن طريق تقويم التفسيرات العلمية والبيانات والاستنتاجات فيصبح الدليل العلمي موثوقًا به

٢ – **وضح** : عندما تقوم بنشر معلومات غير صحيحة في أي موضوع ما أو أن تحتوي بعض الإعلانات على بعض العبارات المضللة والتي يمكن أن تفهم بأكثر من معنى .

p12-39.indd 33 03/04/2019 8:07 PM

استقصاء من واقع الحياة

تعرّف مكوّنات الاستقصاء

الأهداف

- تتعرّف مكوّنات الاستقصاء.
- تتعرف ثوابت التجربة ومتغيراتها وضوابطها.
- تمثّل نتائج التجربة بيانيًّا، وتستخلص الاستنتاج المناسب منها.

المواد والأدوات

- أنواع مختلفة من الأسمدة.

من العوامل المؤثرة على التجربة والتي يجب تثبيتها على جميع أنواع الأسمدة هي الأرض والتربة والهواء والماء بينما نوع السماد من العوامل المتغيرة

سؤال من واقع الحياة



يتكون الاستقصاء العلمي من مكونات عديدة؛ فبالإضافة إلى المتغيرات والثوابت التي ينبغي مراعاتها هناك المحاولة التجريبية الضابطة. في المحاولة الضابطة تُثبّت جميع العوامل المؤثرة في التجربة ليقارن العالم نتائج المحاولة الضابطة بنتائج المحاولات الأخرى.

ما العوامل المختلفة في تجربة لاختبار السماد الذي يساعد على نمو أفضل للنبات؟

الخطوات

١. اقرأ التعليمات الخاصة بمكونات السماد.

٢. اعمل قائمة بالعوامل التي تبقى ثابتة خلال التجربة.

٣. تعرّف متغيرات التجربة.

٤. تعرّف ضابط التجربة.

٥. حدّد فرضية يمكن للمزارع أن يختبرها في تجربته.

٦. صف كيف يمكن أن يختبر المزارع فرضيته مستخدمًا أنواعًا مختلفة من الأسمدة.

٧. مثّل البيانات التي جمعها المزارع في رسم بياني خطي.

كان المزارع مهتمًّا جدًّا بنمو نباتاته بصورة أسرع. وعندما ذهب إلى المشتل وجد ثلاثة أنواع من الأسمدة، أحدها السماد (أ) الذي سبق وأوصي باستخدامه، لكنه قرر عمل تجربة لتحديد أي هذه الأسمدة الثلاثة سيساعد بشكل أفضل على نمو أسرع لنباتاته. زرع المزارع أربع بذور في كل أصيص من أربعة أصص منفصلة، مستخدمًا في



وزارة التعليم
Ministry of Education
2021 - 1443

p12-39.indd 34 03/04/2019 8:07 PM

استخدام الطريقة العلمية

كل مرة الأصيص نفسه، والتربة نفسها.

ثم قام بإضافة السماد (أ) إلى تربة الأصيص الأول، والسماد (ب) إلى تربة الأصيص الثاني، و السماد (ج) إلى تربة الأصيص الثالث، أما تربة الأصيص الرابع فلم يضف إليها أي سماد. ووضع الأصص الأربعة بعضها بجانب بعض في الحديقة، وكان حريصًا على ريها بكميات متساوية من الماء في كل يوم، مع قياس ارتفاع كل من النباتات الأربع في بداية كل أسبوع وتسجيل البيانات. وبعد ثمانية أسابيع من الملاحظة الدقيقة وتسجيل النتائج، حصل على الجدول المجاور.

ارتفاع النبات (سم)				
الأسبوع	السماد (أ)	السماد (ب)	السماد (ج)	بدون سماد
١	٠	٠	٠	٠
٢	٢	٤	١	١
٣	٥	٨	٥	٤
٤	٩	١٣	٨	٧
٥	١٤	١٨	١٢	١٠
٦	٢٠	٢٤	١٥	١٣
٧	٢٧	٣١	١٩	١٦
٨	٣٥	٣٩	٢٢	٢٠

تحليل البيانات

١. **صف** النتائج المتضمنة في الجدول السابق. ما العملية الاستقصائية التي قمت بها الآن؟

٢. **استنتج** بالاعتماد على النتائج في الجدول السابق نوع السماد الذي يجب على المزارع استخدامه لتنمو نباتاته بشكل أسرع. ما العملية الاستقصائية التي قمت بها الآن؟

٣. **حدّد** نوع السماد الذي توصي باستخدامه لزراعة هذه الأنواع من النباتات؟

الاستنتاج والتطبيق

١. **فسّر البيانات** افترض أنّ السماد (ب) أغلى ثمنًا من السمادين (أ) و (ج) فهل تعتقد أن هذا يؤثر في قرار المزارع حول نوع السماد الذي سيشتريه؟ ولماذا؟

٢. **وضّح** هل يحتاج كل باحث إلى تبني الفرضية نفسها عند أداء التجربة ذاتها؟ وما الفرضية الثانية الممكنة التي يمكن أن تضعها في هذه التجربة؟

٣. **وضّح** ما إذا كان اختبار الفرضية الذي نفّذه المزارع كافيًا.

الإجابات الصفحة التالية

تواصل

بياناتك

قارن استنتاجاتك باستنتاجات طلاب آخرين في الصف. وللمزيد من المساعدة ارجع إلى دليل المهارات العلمية في مصادر تعلم الطالب.

وزارة التعليم
Ministry of Education
٢٠٢١ - ١٤٤٣

p12-39.indd 35 08/04/2019 11:18 AM

١. صف النتائج المتضمنة في الجدول السابق. ما العملية الاستقصائية التي قمت بها الآن؟

قمت باستقصاء لتحديد أفضل سماد يمكن ان يستخدمه المزارع .

٢. استنتج بالاعتماد على النتائج في الجدول السابق نوع السماد الذي يجب على المزارع استخدامه لتنمو نباتاته بشكل أسرع. ما العملية الاستقصائية التي قمت بها الآن؟

السماد (ب) أفضل لنمو النبات بشكل أسرع . لقد قمت بمقارنة طول كل نبات خلال الأسابيع المحددة و أختار أكثر نبات طولًا باستخدام السماد .

٣. حدّد نوع السماد الذي توصي باستخدامه لزراعة هذه الأنواع من النباتات؟

أوصى باستخدام السماد (ب) لأنه أعطى نبات أكثر طولًا .

١. فسّر البيانات افترض أنّ السماد (ب) أغلى ثمنًا من السمادين (أ) و (ج) فهل تعتقد أن هذا يؤثر في قرار المزارع حول نوع السماد الذي سيشتريه؟ ولماذا؟

يمكن أن يؤثر في قرار المزارع ، لأن السماد (أ) أقل سعرًا و يعطي نتائج متقاربة من السماد (ب) .

٢. وضّح هل يحتاج كل باحث إلى تبني الفرضية نفسها عند أداء التجربة ذاتها؟ وما الفرضية الثانية الممكنة التي يمكن أن تضعها في هذه التجربة؟

لا ، يمكن لكل باحث تبني فرضية خاصة بيه عند أداء التجربة ذاتها ، يمكن وضع فرضية عن كمية الثمار الناتج من النبات في حالة كل سماد .

٣. وضّح ما إذا كان اختبار الفرضية الذي نفّذه المزارع كافيًا.

لم يكن كافيًا فكان بإمكان المزارع عمل مزيج من نوعين من السماد لعمل سماد له جودة عالية .

p12-39.indd 35 08/04/2019 11:18 AM

النساء والعلم



هل طبيب العائلة رجل أم امرأة؟ قبل مئة سنة، لم تُشجَّع النساء على دراسة العلوم في كثير من الدول والمجتمعات ومع ذلك ظهرت مجموعة من النساء اللواتي لهن إنجاز على مستوى العالم، منهن على سبيل المثال:

ماريا جوبرت ماير

فازت عالمة الفيزياء الألمانية ماريا جوبرت ماير بجائزة نوبل للفيزياء عام ١٩٦٣م عن أبحاثها في بنية نواة الذرة. وقدمت ماريا بذلك مساهمة كبرى في زيادة فهم الإنسان لعالم الذرة.

ليلى عبدالمنعم

في عام ٢٠٠٤م فازت المهندسة المصرية ليلى عبدالمنعم بجائزة جلوبل العلمية بلندن عن أبحاثها في تصميم خلطات البناء المقاومة للزلازل، وهذا الإنجاز يأتي بعد أكثر من مئة إنجاز علمي قامت به ليلى في ميادين الهندسة والزراعة والإلكترونيات وغيرها.

خولة الكريع

في عام ٢٠٠٧م، فازت الطبيبة والعالمة السعودية خولة الكريع بجائزة جامعة هارفارد للتميز العلمي عن أبحاثها في تشخيص البَصْمة الوراثية لمرضى السرطان. مما يساعد على الكشف المبكر عن هذا المرض وتعزيز الجهود الرامية إلى القضاء عليه.

ماري كوري

عالمة في الفيزياء والكيمياء، وهي أول امرأة حصلت على جائزة نوبل، كما أنها الوحيدة التي حصلت على جائزتي نوبل في مجالين مختلفين، في الفيزياء والكيمياء. من خلال أبحاثها وسعيها الحثيث مع زوجها بيير كوري، اكتشفت ماري عنصريْ البولونيوم والراديوم وطوّرت بعد ذلك استعمال الأشعة السينية. ووضعت فرضيّة مفادُها أن الأشعة تنبعث من البنية الذرية للعنصر نفسِه وليس من تفاعل حاصل بين الذرات. أسست هذه النظرية المجال المعروف بـ«الفيزياء الذرية» وابتكرت ماري حينها مصطلحًا جديدًا يُدعى «النشاط الإشعاعي» يصف ظاهرة الإشعاع الناجم عن الذرة.

العلوم عبر المواقع الالكترونية

ابحث في المواقع الإلكترونية للحصول على معلومات حول نساء حصلن على جائزة نوبل في حقول الفيزياء والكيمياء والطب، واكتب مقالة قصيرة تصف فيها حياتهن، وأهمية اكتشاف كل منهن.

ارجع إلى المواقع الإلكترونية عبر شبكة الإنترنت..

وزارة التعليم
Ministry of Education
2021 - 1443

p12-39.indd 36 03/04/2019 8:07 PM

دليل مراجعة الفصل ١

مراجعة الأفكار الرئيسة

الدرس الأول العلم وعملياته

١. العلم طريقة التعلم عن العالم الطبيعي، ويمكن أن يقدم تفسيرات عن سبب حدوث الأشياء، وكيفية حدوثها.

٢. الفرضية تخمين لجواب أو تفسير منطقي متوقع مبني على معارف وملاحظات سابقة.

٣. تستخدم التجارب المضبوطة في الاستقصاءات العلمية حيث يتم تغيير عامل وملاحظة تأثيره في عامل آخر.

الدرس الثاني النماذج العلمية

١. النموذج أي تمثيل لشيء أو حدث يستخدم كأداة لفهم العالم الطبيعي، وللتواصل بالأفكار والتحقق من التوقعات وتوفير الجهد والمال.

٢. هناك ثلاثة أنواع من النماذج وهي: المادية، والحاسوبية، والفكرية.

٣. يمكن تعديل النماذج في ضوء المعلومات الجديدة، فهي قابلة للتطور.

الدرس الثالث تقويم التفسيرات العلمية

١. البيانات المعتمدة أو الموثوقة بيانات محددة، وقابلة للتكرار، أي يمكن أن يتوصل إليها علماء آخرون.

٢. يعد الاستنتاج موثوقًا إذا كان مقبولًا ذا معنى، ويشكل التفسير الأقرب للصواب.

تصور الأفكار الرئيسة

انسخ خريطة المفاهيم التالية حول العلم وأقسامه وأكملها:

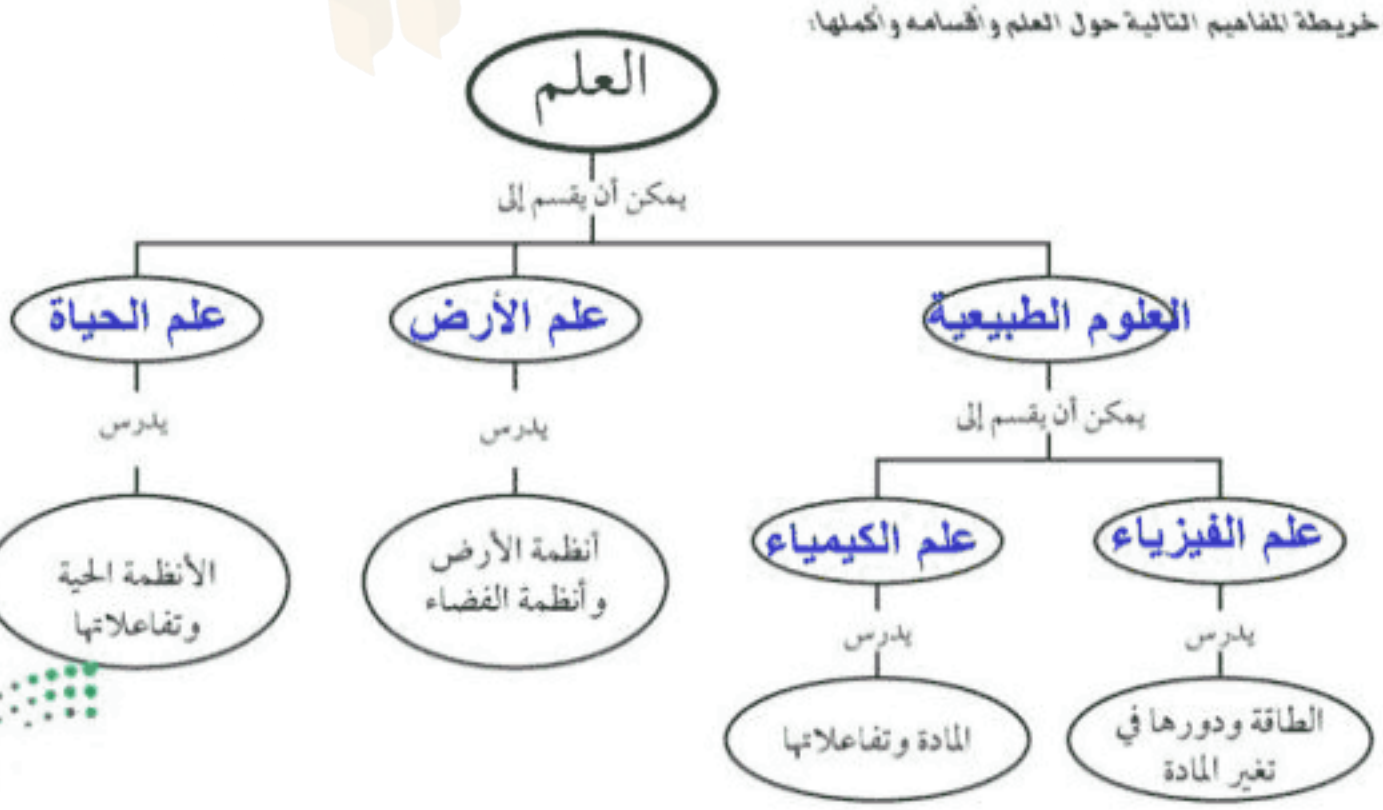

وزارة التعليم
Ministry of Education
2021 - 1443

p12-39.indd 37 03/04/2019 8:07 PM

مراجعة الفصل ١

استخدام المفردات

وضح العلاقة بين كل مصطلحين مما يلي:

١. الفرضية – النظرية العلمية

٢. الثوابت – المتغيرات

٣. علم الأرض – علم الفيزياء

٤. النظرية العلمية – القانون العلمي

تثبيت المفاهيم

اختر الإجابة الصحيحة فيما يأتي.

٥. ماذا تعمل إذا كانت نتائج تجاربك لا تدعم فرضيتك؟

أ. لا أعمل شيئًا.

ب. أُعيد التجربة حتى تتفق مع الفرضية.

جـ. أُغيِّر الفرضية.

د. أُغيِّر بياناتي حتى تطابق فرضيتي.

٦. ماذا نسمى صورة ثلاثية الأبعاد لبناء معين حصلنا عليها باستخدام الحاسوب؟

أ. نموذجًا

ب. ثابتًا

جـ. فرضية

د. متغيرًا

٧. أي مما يلي يمكن أن يفسر حدثًا في العالم الطبيعي؟

أ. قانون علمي

ب. نظرية علمية

جـ. تقنية

د. تجربة علمية

٨. يُعد نموذج الطائرة مثالاً على نموذج:

أ. مادي

ب. فكري

جـ. حاسوبي

د. عقلي

٩. ماذا نعني بالاستدلال؟

أ. عمل ملاحظات

ب. استبدال

جـ. استخلاص نتائج

د. اختبار

التفكير الناقد

١٠. **قارن** بين القانون العلمي والنظرية العلمية من حيث أوجه التشابه والاختلاف.

١١. **توقع** ما أسرع طريقة للوصول إلى المدرسة في الصباح؟ اكتب بعض الطرائق التي يمكن أن تستخدمها لاختبار توقعك.

١٢. **استخلص النتائج** عندما يقوم العلماء بتجربة علاج جديد، يُعطَى هذا العلاج لمجموعة من المرضى ولا يُعطى لمجموعة أخرى. لماذا؟

الإجابات الصفحة التالية

الإجابات الصفحة التالية

وزارة التعليم
Ministry of Education
2021 - 1443

p12-39.indd 38 03/04/2019 8:07 PM

١ – الفرضية	هي جواب أو تخمين محتمل يعتمد على معرفتك وملاحظتك
النظرية العلمية	هي محاولة لتفسير سلوك أو نمط معين تمت ملاحظته مرات كثيرة في العالم الطبيعي
٢ – الثوابت	عوامل يتم ضبطها أثناء التجربة ولا تتغير
المتغيرات	عوامل يمكن أن تتغير أثناء التجربة وهي كثيرة في العالم الطبيعي
٣ – علم الأرض	هو العلم الذي يهتم بدراسة أنظمة الأرض والفضاء
علم الفيزياء	هو العلم الذي يهتم بدراسة المادة والطاقة والعلاقات بينهم كثيرة في العالم الطبيعي
٤ – النظرية العلمية	هي محاولة لتفسير سلوك أو نمط معين تمت ملاحظته مرات كثيرة في العالم الطبيعي
القانون العلمي	يصف أنماطًا ولكنه لا يفسر حدوث الأشياء

التفكير الناقد :

١٠ – قارن :



١١ – **توقع** : يمكنك اختبار فرضيتك بتقدير الوقت الذي يمكنك خلاله الوصول إلى المدرسة ومقارنته بالوقت الذي نحتاج إليه في الوصول إلى المدرسة باستخدام الطرائق الأخرى

١٢ – **استخلص النتائج** : يمكن للعلماء معرفة فعالية الدواء من خلال تأثيره على المجموعة التي عولجت به مقارنة مدى تحسنها بالمجموعة التي لم تعالج بالدواء

p12-39.indd 38 03/04/2019 8:07 PM

أنشطة تقويم الأداء

١٣. **وضع فرضية** استخدم كرة السلة وكرة الطاولة لوضع فرضية عن عدد المرات التي ترتدها كل منهما إذا اصطدمت بالأرض. أسقط كلتا الكرتين من ارتفاع يعادل مستوى كتفك خمس مرات، وسجل عدد الارتدادات في جدول. أيّ الكرتين ارتدت مرات أكثر؟ ضع فرضية لتوضيح السبب.

١٤. **لاحظ** ضع كمية من الماء في صحن، ثم رش مسحوق الفلفل الأسود على سطح الماء، ولاحظ كيف يطفو الفلفل على الماء. أضف بضع قطرات من الصابون السائل إلى الماء. ما الذي يحدث؟

١٣ – وضع فرضية : ارتدت كرة الطاولة مرات أكثر من كرة السلة ، مساحة سطح كرة الطاولة أقل من كرة السلة لذا تحتفظ بطاقة أكثر عندما ترتد .

١٤ – لاحظ : ينتشر الفلفل الأسود ويصل إلى الحواف الخارجية للصحن عندما يضاف الصابون السائل إلى الماء .

تطبيق الرياضيات

استخدم الرسم التالي للإجابة عن السؤال ١٥.

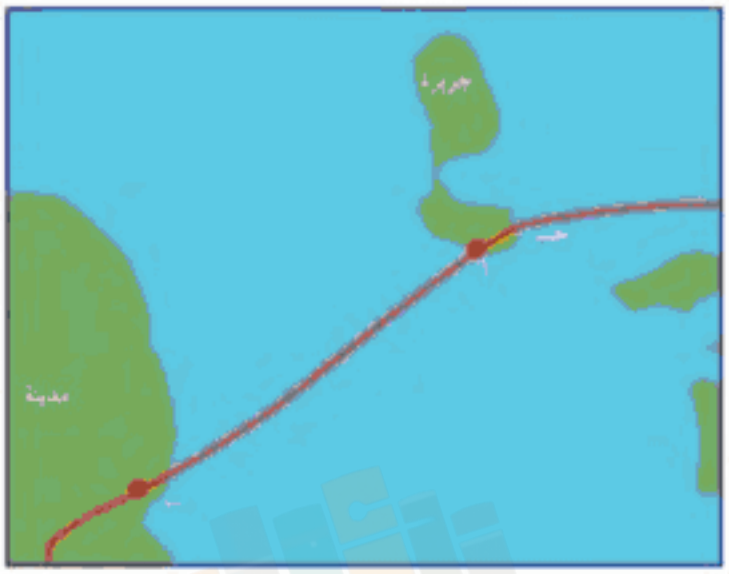

١٥. **استخدام التناسب** تبين الخريطة أعلاه المسافة بين نقطتين. ويبين مقياس الرسم المستخدم أن ١ سم على الخريطة يمثل ١,٠٥ كم تقريبًا على الواقع. ما المسافة التقريبية بين النقطتين أ و ب؟

١٥ – المسافة بين النقطتين على الخريطة تساوي ٤,٥ سم والمسافة التقريبية بينهما في الواقع هي :
٤,٥ سم × (١,٠٥ كم / ١ سم) = ٤,٧ كم

وزارة التعليم
Ministry of Education
2021 - 1443

p12-39.indd 39 03/04/2019 8:07 PM